Nombre: _____ Fecha: _____

Problema.

- En la plaza de mi pueblo hay cuatro árboles. En cada árbol hay tres nidos de pájaros. ¿Cuántos nidos hay en total?

☐ ○ ☐ = ☐

Hay ☐ nidos.

- Hizo mucho viento y se cayeron 5 nidos. ¿Cuántos nidos quedaron en los árboles?

☐ ○ ☐ = ☐

Quedaron ☐ nidos.

Escribe los nombres de estos cuerpos geométricos:

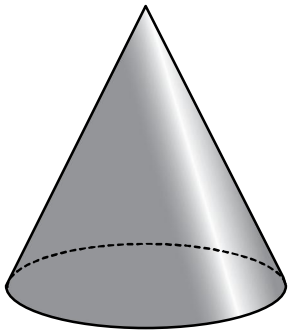

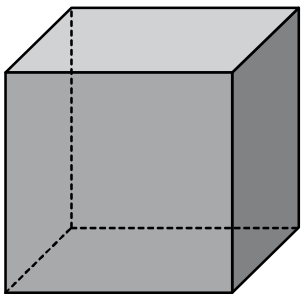

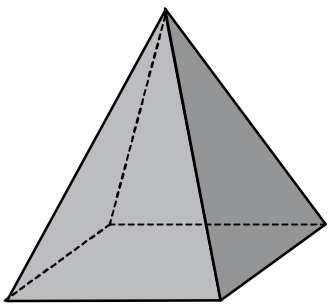

_____ _____ _____